Bac Général Physique-Chimie + SVT (Physique-chimie et Sciences de la vie et de la Terre)

SUJET D'EXAMEN (SESSION OFFICIELLE)

Physique-chimie - Session 2023

Sujet de l'examen national tel que publié pour la session indiquée. Source : sujets nationaux publiés par le ministère chargé de l'examen et les services académiques. Document mis à disposition par FormaV pour la révision.

Toutes les annales et leurs corrigés : https://bac-physique-svt.fr/annales-sujets-et-corriges

Bac 2023 Métropole septembre Jour 1 https://labolycee.org

EXERCICE 1 - OBSERVATION ORNITHOLOGIQUE D'UNE OIE CENDRÉE (11 pts)

Certains parcs ornithologiques proposent des sorties mêlant observations des oiseaux, suivies d'analyse d'échantillons récoltés comme par exemple des plumes.



Oie cendrée

Cet exercice s'intéresse dans un premier temps à l'observation d'une oie cendrée à l'œil nu et à l'aide d'une longue-vue. Puis, dans un second temps, le phénomène d'interférences lumineuses est utilisé pour déterminer des dimensions caractéristiques de la structure d'une plume d'oie.

Données :

- Taille approximative d'une oie cendrée : 80 cm ;
- Taille approximative du bec d'une oie cendrée : 7 cm ;
- Distance focale de l'objectif L_1 de la longue-vue : $f_1' = 450$ mm ;
- Distance focale de l'oculaire L_2 de la longue-vue : $f_2' = 30$ mm ;
- Relation de conjugaison pour une lentille L de centre optique O : $\frac{1}{\overline{OA'}} = \frac{1}{\overline{OA}} + \frac{1}{f'}$ où $\overline{OA'}$ est la distance algébrique entre le centre optique de la lentille L et le point A', $\overline{OA}$ est la distance algébrique entre le centre optique de la lentille L et le point A et f' est la distance focale de la lentille ;
- Grandissement transversal $\gamma = \frac{\overline{OA'}}{\overline{OA}} = \frac{\overline{A'B'}}{\overline{AB}}$ où $\overline{A'B'}$ est la taille algébrique de l'image A'B' et $\overline{AB}$ est celle de l'objet AB ;
- Approximation dans le cas de petits angles ($\theta << 1$ rad) : $\sin\theta = \theta$; $\tan\theta = \theta$.

1. Observation d'une oie cendrée à l'œil nu

L'œil est un système complexe que l'on peut modéliser par l'association (**figure 1**) :

- d'une lentille mince convergente L, d'axe optique Δ, de distance focale $f' = \overline{OF'} = 17$ mm, de centre optique O ;
- d'un écran situé à une distance $D = 17$ mm du centre optique O.

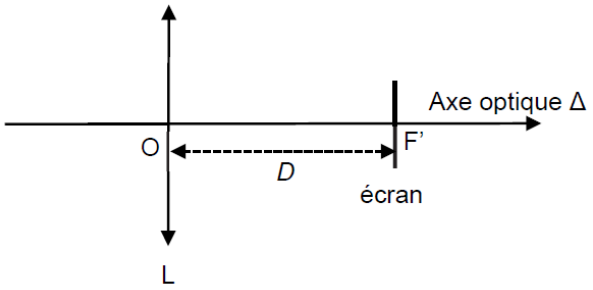

Figure 1. Schéma simplifié du modèle de l'œil

La rétine est une membrane qui tapisse le fond de l'œil et qui joue le rôle d'écran. L'oie cendrée est modélisée par un objet de hauteur AB perpendiculaire à l'axe optique en A et situé à 280 m du centre optique O. L'image de AB à travers la lentille L est notée A'B'.

Q1. Justifier que la position de l'image A'B' de l'oie par la lentille L est telle que $\overline{OA'} = 17$ mm.

Q2. Vérifier que la taille de l'image A'B' de l'oie sur la rétine de l'observateur est voisine de 49 µm. Sachant que la rétine est assimilée à un disque de rayon égal à 6 mm centré en F', préciser si l'oie est vue en entier par un observateur.

Le pouvoir séparateur de l'œil humain est l'angle limite, noté α_m, sous lequel un objet peut être vu distinctement par l'œil (voir figure 2) ; sa valeur est de 3×10^{-4} rad.

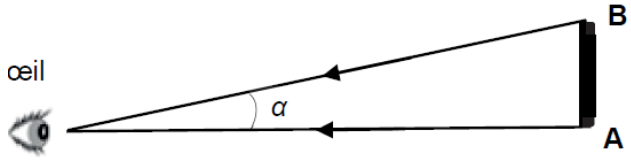

Figure 2. L'objet AB est vu sous un angle α par l'œil.
Il peut être distinctement vu par l'œil si $\alpha > \alpha_m$

Q3. Déterminer la distance minimale séparant deux points A et B d'un objet pouvant être vus lorsqu'ils sont situés à une distance de 280 m de l'œil.
En déduire si l'oie peut être vue distinctement par l'observateur à l'œil nu puis déterminer si le bec de l'oie peut être observé distinctement.

2. Observation avec une longue-vue assimilée à une lunette astronomique afocale

L'oie est désormais observée à l'aide d'une longue-vue assimilée à une lunette astronomique afocale. Cette lunette est composée d'une lentille L_1 de distance focale f_1' jouant le rôle de l'objectif et d'une lentille L_2 de distance focale f_2' jouant le rôle de l'oculaire. On considère que l'oie, modélisée par un objet AB perpendiculaire à l'axe optique en A, est « à l'infini ». L'image de AB à travers la lentille L_1 est notée A_1B_1. L'image de A_1B_1 à travers la lentille L_2 est notée A_2B_2.

Q4. Compléter la figure A1 de l'**ANNEXE À RENDRE AVEC LA COPIE** pour représenter l'image A_1B_1 formée par la lentille L_1 d'un objet AB (représentant l'oie) situé à l'infini.

Q5. Placer, en justifiant, le foyer objet F_2 de la lentille L_2 sur la figure A_1 de l'**ANNEXE À RENDRE AVEC LA COPIE.**

Une lunette astronomique est caractérisée par son grossissement d'expression :

$$G = \frac{\alpha'}{\alpha}$$

avec α l'angle sous lequel l'objet AB est vu à l'œil nu et α' l'angle sous lequel l'image A_2B_2 est vue à travers la lunette astronomique afocale.

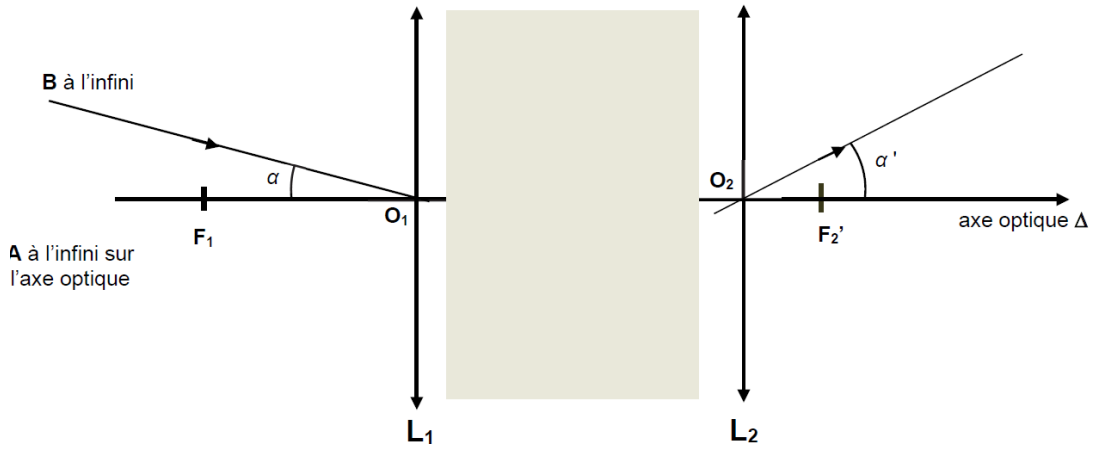

Figure 3. Représentation, sans souci d'échelle, de la lunette astronomique.

Q6. En considérant les angles α et α' exprimés en radians comme petits, montrer que le grossissement de la lunette astronomique afocale peut s'exprimer par la relation :

$$G = \frac{f_1'}{f_2'}.$$

On peut s'appuyer sur la figure A_1 de l'**ANNEXE À RENDRE AVEC LA COPIE**.

Q7. Calculer la valeur du grossissement G de la lunette astronomique afocale.

Q8. Indiquer en justifiant si l'observateur voit distinctement, à travers la longue-vue, le bec de l'oie située à 280 m.

3. Structure de la plume d'une oie cendrée



Plume d'oie

Pour identifier l'espèce d'un oiseau, la plume est une des parties du corps de l'animal qu'il est possible d'étudier. Les plumes d'oiseaux sont des objets complexes qui possèdent des structures géométriques périodiques à des échelles différentes, qu'il est possible d'étudier par des méthodes interférométriques.

L'expérience des fentes d'Young permet d'obtenir sur un écran une figure d'interférences constituée d'une succession de franges brillantes et sombres qui se répartissent sur un axe de direction parallèle à la droite joignant les deux fentes.

La figure 4 donne une schématisation d'une expérience des fentes d'Young, de centres F_1 et F_2, ainsi qu'une photographie de la figure d'interférences obtenue.

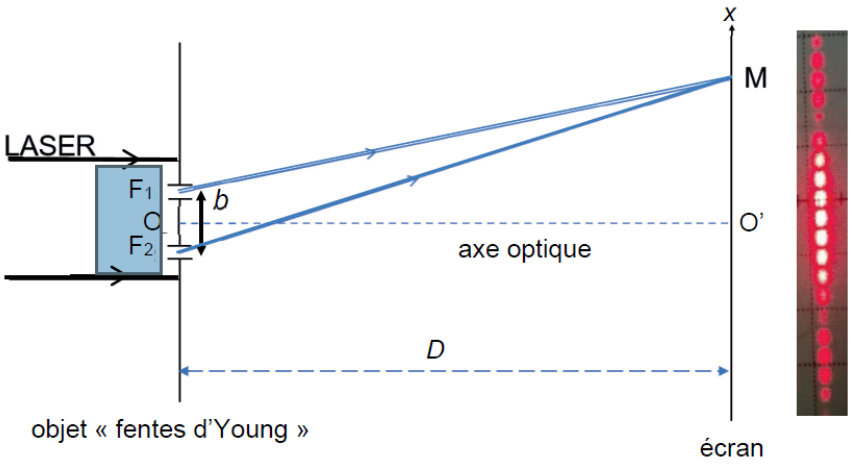

Figure 4. Schéma du dispositif expérimental.

Un faisceau lumineux issu d'un laser de longueur d'onde λ, éclaire un objet plan totalement opaque en dehors de deux fentes, séparées d'une distance notée b. Cet objet est appelé objet « fentes d'Young ».

Le faisceau est constitué d'un ensemble de rayons parallèles, et se propage parallèlement à l'axe optique (OO'), le point O étant à égale distance des points F_1 et F_2 et le point O' étant situé sur l'écran.

Les ondes issues des fentes interfèrent sur l'écran. En un point M de celui-ci, on admet que la différence de chemin optique entre les deux ondes s'écrit $\delta = F_2M - F_1M$ (voir figure 4).
L'écran est situé à une distance D des fentes très grande devant la distance b ($D >> b$).
Dans l'approximation des petits angles ($\theta << 1$ rad) : $\sin\theta = \theta$; $\tan\theta = \theta$.

Q9. Préciser la condition que doit vérifier la différence de chemin optique δ pour que les ondes issues des fentes interfèrent de manière constructive au point M. Indiquer en justifiant dans ce cas si la frange au point O' est brillante ou sombre.

Sur la figure 5, le point H représente le projeté orthogonal de F_1 sur le segment $[F_2M]$. On admet que la différence de chemin optique δ est égale à la longueur du segment $[F_2H]$.

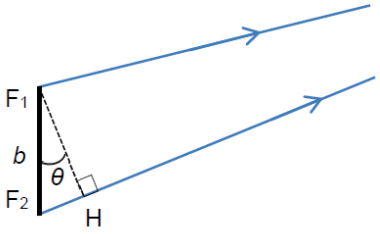

Figure 5. Agrandissement du schéma au niveau des fentes d'Young

Q10. Montrer que, dans les conditions de l'expérience ($\theta << 1$ rad), il est possible d'exprimer la différence de chemin optique par la relation suivante :

$$\delta = b \cdot \theta.$$

On montre, avec une très bonne approximation, que l'angle θ est égal à l'angle $\widehat{O'OM}$ dans le triangle rectangle O'OM représenté sur la figure 6. L'abscisse du point M sur l'axe O'*x* est notée *x*.

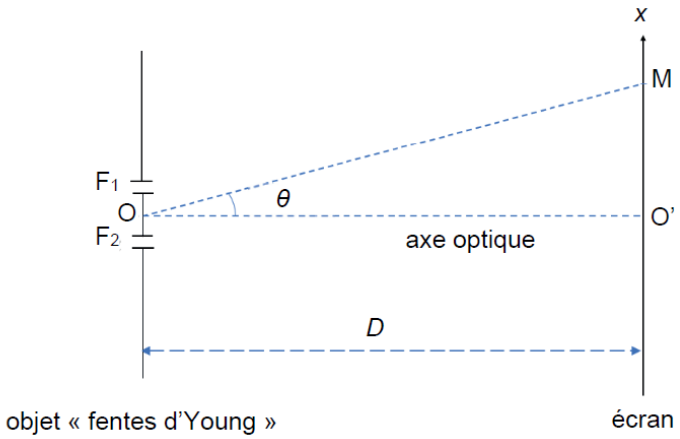

Figure 6. Mise en évidence de l'angle θ dans le triangle O'OM

Q11. Après avoir exprimé l'angle θ en fonction de *D* et *x*, montrer que la différence de chemin optique δ a pour expression :

$$\delta = \frac{b \cdot x}{D}.$$

Q12. En déduire l'expression des abscisses x_k des franges brillantes, en fonction de λ, *D*, *b* et d'un entier relatif *k*.

Q13. Montrer que l'interfrange *i* est donnée par l'expression littérale suivante :

$$i = \frac{\lambda \cdot D}{b}.$$

La figure 7 montre qu'une plume d'oie est composée d'un ensemble de barbes (tiges) fixées sur le rachis (axe principal de la plume d'oie). Les barbes supportent des éléments plus petits et fins, invisibles à l'oeil nu, appelés barbules. Les barbes sont régulièrement espacées d'une distance notée b_{barbe}, les barbules sont également régulièrement espacées d'une distance notée $b_{barbule}$ (voir figure 7) et sont dans une direction pratiquement perpendiculaire à celle des barbes.
Les barbules sont plus resserrées que les barbes, on a donc $b_{barbule} < b_{barbe}$.

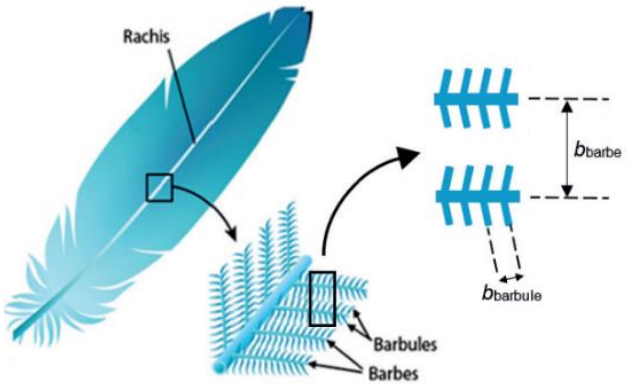

Figure 7. Schéma simplifié d'une plume
(*d'après https://askabiologist.asu.edu*)

On réalise la même expérience que celle décrite dans la figure 4 en remplaçant l'objet « fentes d'Young » par une plume d'oie, éclairée avec un laser dont la longueur d'onde est λ = 650 nm. L'écran est placé à une distance D = 74 cm de la plume. On obtient alors une figure d'interférences dont la photographie (en négatif) est donnée sur figure A2 de l'**ANNEXE À RENDRE AVEC LA COPIE**.

L'écran est rapporté à un repère d'origine O' et d'axes O'x et O'y orthogonaux.

Dans un modèle très simplifié, il est possible de montrer que les interférences sont constructives uniquement en des points de coordonnées (x_k, y_ℓ), vérifiant les relations :

$$x_k = k \cdot \frac{\lambda \cdot D}{b_{barbe}} \qquad \text{et} \qquad y_\ell = \ell \cdot \frac{\lambda \cdot D}{b_{barbule}}$$ où k et ℓ sont des entiers relatifs.

Le modèle prévoit que seulement certains de ces points sont lumineux du fait de détails de la géométrie des plumes auxquels on ne s'intéresse pas ici.

Q14. Montrer que le modèle simplifié permet d'expliquer certaines caractéristiques de la figure d'interférences observée sur la figure A2 de l'**ANNEXE À RENDRE AVEC LA COPIE**. Dans les cases vides de cette figure, identifier, en justifiant, l'axe O'x puis l'axe O'y.

Q15. En exploitant la figure A2 de l'**ANNEXE À RENDRE AVEC LA COPIE**, évaluer les valeurs des interfranges i_1 et i_2 puis en déduire les valeurs des espacements b_{barbule} et b_{barbe}.

ANNEXE À RENDRE AVEC LA COPIE

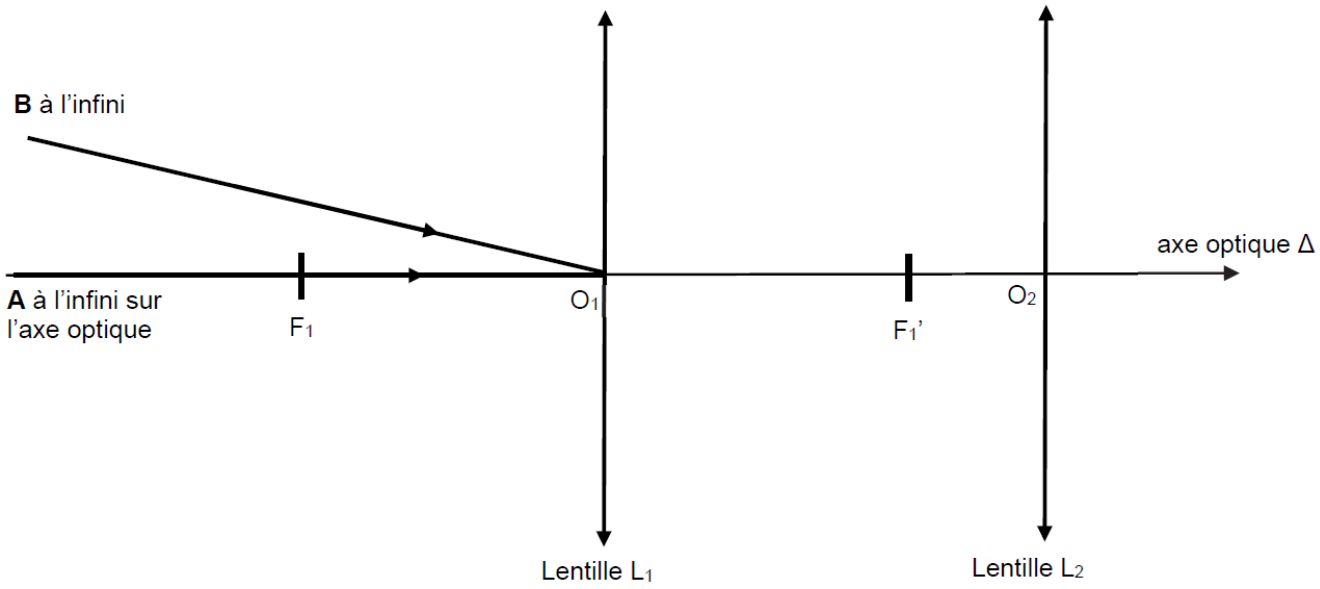

Figure A1. Schéma de la longue-vue (représentée sans souci d'échelle) assimilée à une lunette astronomique afocale



Figure A2. Figure d'interférences obtenue avec la plume d'oie

Il s'agit d'une photographie en négatif : les points sombres sur la photographie correspondent à des points brillants dans la réalité.