Ce document a été mis en ligne par l'organisme FormaV®.

Toute reproduction, représentation ou diffusion, même partielle, sans autorisation préalable, est strictement interdite.

Pour consulter tous nos sujets d'annales et corrigés du Bac Général Physique + SVT, veuillez visiter :
bac-physique-svt.fr/annales-sujets-et-corriges

Bac 2025 Métropole septembre Jour 2 Correction © https://www.labolycee.org

Exercice 3 – Le réfrigérateur (6 points)

Élément indispensable des cuisines et des magasins, le réfrigérateur n'a cessé d'être perfectionné depuis le premier brevet déposé en 1835 par Jacob Perkins. Il nous permet d'avoir à portée de main un endroit frais.

Les objectifs de cet exercice sont :
- d'étudier dans une première partie le refroidissement d'une bouteille d'eau placée dans un réfrigérateur « A » destiné à maintenir au frais des boissons à la température d'environ 7 °C ;
- d'étudier dans une seconde partie la difficulté d'ouverture d'une porte d'un réfrigérateur « B » dans deux situations différentes.

1. La température « idéale » d'une bouteille d'eau pour optimiser l'hydratation

Données :

- le système étudié dans cette partie est une bouteille d'eau notée S ;
- volume du système S : V_S= 1,5 L ;
- masse volumique du système S : ρ_S = 1,00 kg·L^{-1};
- capacité thermique massique du système S : c_S= 4,18×10^3 J·K^{-1}·kg^{-1};
- la température idéale de consommation de l'eau, afin d'optimiser la réhydratation du corps humain est : $\theta_{idéale}$= 16 °C ;
- la loi de Newton donne l'expression du flux thermique Φ (en W) reçu par le système S, à une température $\theta(t)$, de la part de l'air intérieur du réfrigérateur dont la température $\theta_{réfri}$ est considérée constante :

$$\Phi = \alpha \cdot (\theta_{réfri} - \theta(t))$$

où α = 0,50 W·K^{-1} est une estimation du coefficient d'échange thermique entre le système S et l'air intérieur du réfrigérateur.

À l'instant t = 0, on place le système S dans le réfrigérateur « A », on ferme la porte de ce réfrigérateur puis on mesure la température $\theta(t)$ du système S à intervalle de temps régulier pendant une demi-journée.

Q1. Caractériser qualitativement le phénomène de convection, un des modes de transfert thermique ayant lieu entre S et son environnement.

La convection est un mode de transfert thermique qui s'opère par transport de matière, elle a lieu dans les fluides (gaz et liquides).

Q2. Indiquer, en justifiant, le sens du transfert thermique Q dans le cas étudié.

La bouteille est placée au réfrigérateur dans le but de la refroidir, elle est donc initialement plus chaude que l'intérieur du réfrigérateur. Le transfert thermique s'opère du corps chaud vers le corps froid, donc de la bouteille vers l'intérieur du réfrigérateur.

L'utilisation d'un tableur-grapheur permet d'obtenir :

- le tracé de la courbe de température expérimentale à partir des mesures effectuées ;
- le tracé d'une courbe de modélisation de l'évolution temporelle de la température $\theta(t)$ du système S à l'aide d'une fonction de la forme générale : $\theta(t) = A \cdot e^{-\frac{t}{\tau}} + B$ où A, B et τ sont des constantes.

Ces deux courbes sont représentées sur la figure 1 de l'**ANNEXE À RENDRE AVEC LA COPIE**.

Q3. Exprimer $\theta(t = 0)$ puis la limite de $\theta(t)$ quand $t \to +\infty$ en fonction des constantes A et B. En déduire, en utilisant la figure 1 de l'ANNEXE À RENDRE AVEC LA COPIE, des valeurs des constantes A et B en précisant leur unité respective.

$$\theta(t=0) = A \cdot e^{-\frac{0}{\tau}} + B = A + B$$

$$\lim_{t\to\infty} \theta(t) = \lim_{t\to\infty} \left(A \cdot e^{-\frac{t}{\tau}} + B \right) = A \times 0 + B = B$$

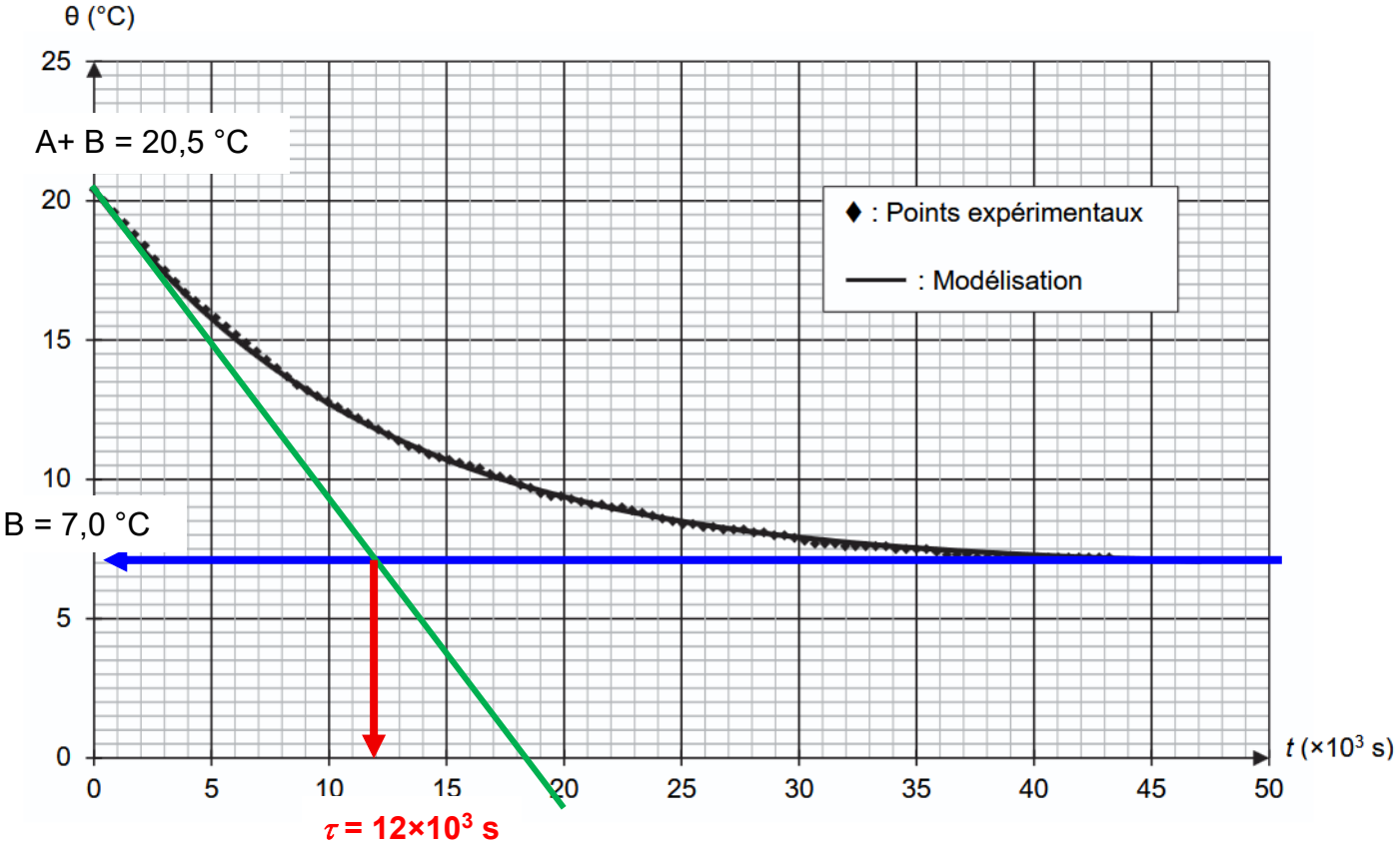

Évolution de la température θ de S au cours du temps t

Par lecture graphique, on en déduit que B = 7,0°C et que A+B = 20,5°C
Donc A = 20,5 – 7,0 = 13,5°C.

Q4. Montrer graphiquement, en faisant apparaître la construction sur la figure 1 de l'ANNEXE À RENDRE AVEC LA COPIE, que la valeur de la constante τ est de l'ordre de 12×10^3 s.

On trace la tangente à la courbe $\theta(t)$ en t = 0 s.
Elle coupe l'asymptote horizontale à la courbe $\theta(t)$ à la date $t = \tau$.
On lit $\tau = 12\times10^3$ s.
Remarque : cette méthode est peu précise, mais c'est sans doute celle attendue.
On peut vérifier aussi cette valeur par le calcul.

$$\theta(t) = A \cdot e^{-\frac{t}{\tau}} + B$$

$$\theta(t) - B = A \cdot e^{-\frac{t}{\tau}}$$

$$\frac{\theta(t) - B}{A} = e^{-\frac{t}{\tau}}$$

$$\ln\left(\frac{\theta(t) - B}{A}\right) = -\frac{t}{\tau}$$

$$\tau = -\frac{t}{\ln\left(\frac{\theta(t) - B}{A}\right)}$$

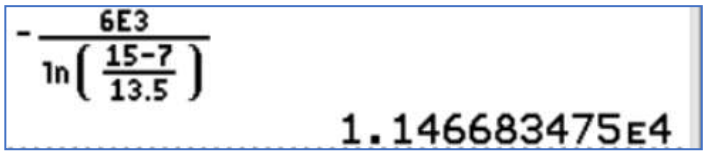

Pour $t = 6\times10^3$ s , on lit que $\theta(t) = 15$°C.

On calcule alors $\tau = -\frac{6\times10^3}{\ln\left(\frac{15,0-7,0}{13,5}\right)} = 1,1\times10^4 s = 12\times10^3 s$

On cherche à déterminer par un modèle l'équation différentielle vérifiée par la fonction $\theta(t)$. Pour cela, on effectue un bilan d'énergie pour le système S, entre les instants t et $t + \Delta t$.

Q5. Appliquer le premier principe de la thermodynamique au système S entre t et $t + \Delta t$ pour exprimer la variation de température $\theta(t + \Delta t) - \theta(t)$ en fonction de Δt, ρ_S, V_S, c_S, α et $(\theta_{réfri} - \theta(t))$.

Le système {bouteille} est au repos macroscopique (son énergie mécanique ne varie pas) ; le 1er principe de la thermodynamique donne $\Delta U = W + Q$.

Ici $W = 0$ car il n'y a pas d'échanges sous forme de travail, donc $\Delta U = Q$.

D'autre part $\Delta U = m_S \cdot c_S \cdot \Delta\theta$

Comme $\rho_S = \frac{m_S}{V_S}$ alors $m_S = \rho_S \cdot V_S$

$Q = \rho_S \cdot V_S \cdot c_S \cdot \Delta\theta$

$\Phi = \frac{Q}{\Delta t}$ donc $\Phi = \frac{\rho_S \cdot V_S \cdot c_S \cdot \Delta\theta}{\Delta t}$

D'après la loi de Newton donnée $\Phi = \alpha \cdot (\theta_{réfri} - \theta(t))$

$$\frac{\rho_S \cdot V_S \cdot c_S \cdot \Delta\theta}{\Delta t} = \alpha \cdot \left(\theta_{réfri} - \theta(t)\right)$$

$$\Delta\theta = \frac{\alpha \cdot \left(\theta_{réfri} - \theta(t)\right)}{\rho_S \cdot V_S \cdot c_S} \cdot \Delta t$$

$$\theta(t + \Delta t) - \theta(t) = \frac{\alpha \cdot \left(\theta_{réfri} - \theta(t)\right)}{\rho_S \cdot V_S \cdot c_S} \cdot \Delta t$$

On en déduit que l'équation différentielle régissant l'évolution de la température $\theta(t)$ s'écrit :

$$\frac{d\theta(t)}{dt}+\frac{\theta(t)}{\tau}=\frac{\theta_{réfri}}{\tau} \text{ avec } \tau=\frac{\rho_S \cdot V_S \cdot c_S}{\alpha}.$$

La solution de cette équation différentielle a pour expression : $\theta(t)=(\theta_0-\theta_{réfri})\cdot e^{-\frac{t}{\tau}}+\theta_{réfri}$

On donne pour l'expérience réalisée : θ_0 = 20,4 °C et $\theta_{réfri}$ = 6,8 °C.

Q6. Établir, selon cette modélisation, en fonction de τ, θ_0, $\theta_{réfri}$ et $\theta_{idéale}$, l'expression de la durée $t_{idéale}$ nécessaire pour que le système S atteigne la température idéale de consommation d'une boisson.

$$\theta(t)=(\theta_0-\theta_{réfri})\cdot e^{-\frac{t}{\tau}}+\theta_{réfri}$$

$$\theta_{idéale}=(\theta_0-\theta_{réfri})\cdot e^{-\frac{t_{idéale}}{\tau}}+\theta_{réfri}$$

$$\theta_{idéale}-\theta_{réfri}=(\theta_0-\theta_{réfri})\cdot e^{-\frac{t_{idéale}}{\tau}}$$

$$\frac{\theta_{idéale}-\theta_{réfri}}{\theta_0-\theta_{réfri}}=e^{-\frac{t_{idéale}}{\tau}}$$

$$\ln\left(\frac{\theta_{idéale}-\theta_{réfri}}{\theta_0-\theta_{réfri}}\right)=-\frac{t_{idéale}}{\tau}$$

$$t_{idéale}=-\tau\cdot\ln\left(\frac{\theta_{idéale}-\theta_{réfri}}{\theta_0-\theta_{réfri}}\right)$$

Q7. Calculer cette durée $t_{idéale}$, sachant que $\theta_{idéale}$ = 16 °C. Indiquer si cette durée est cohérente avec le graphique de l'ANNEXE À RENDRE AVEC LA COPIE. Une construction graphique est attendue.

$$t_{idéale}=-12\times10^3\times\ln\left(\frac{16-6{,}8}{20{,}4-6{,}8}\right)=4{,}7\times10^3\,\text{s}$$

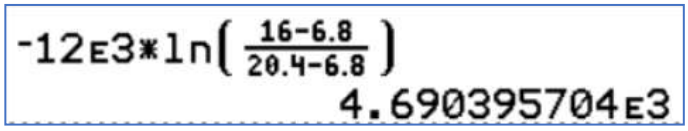

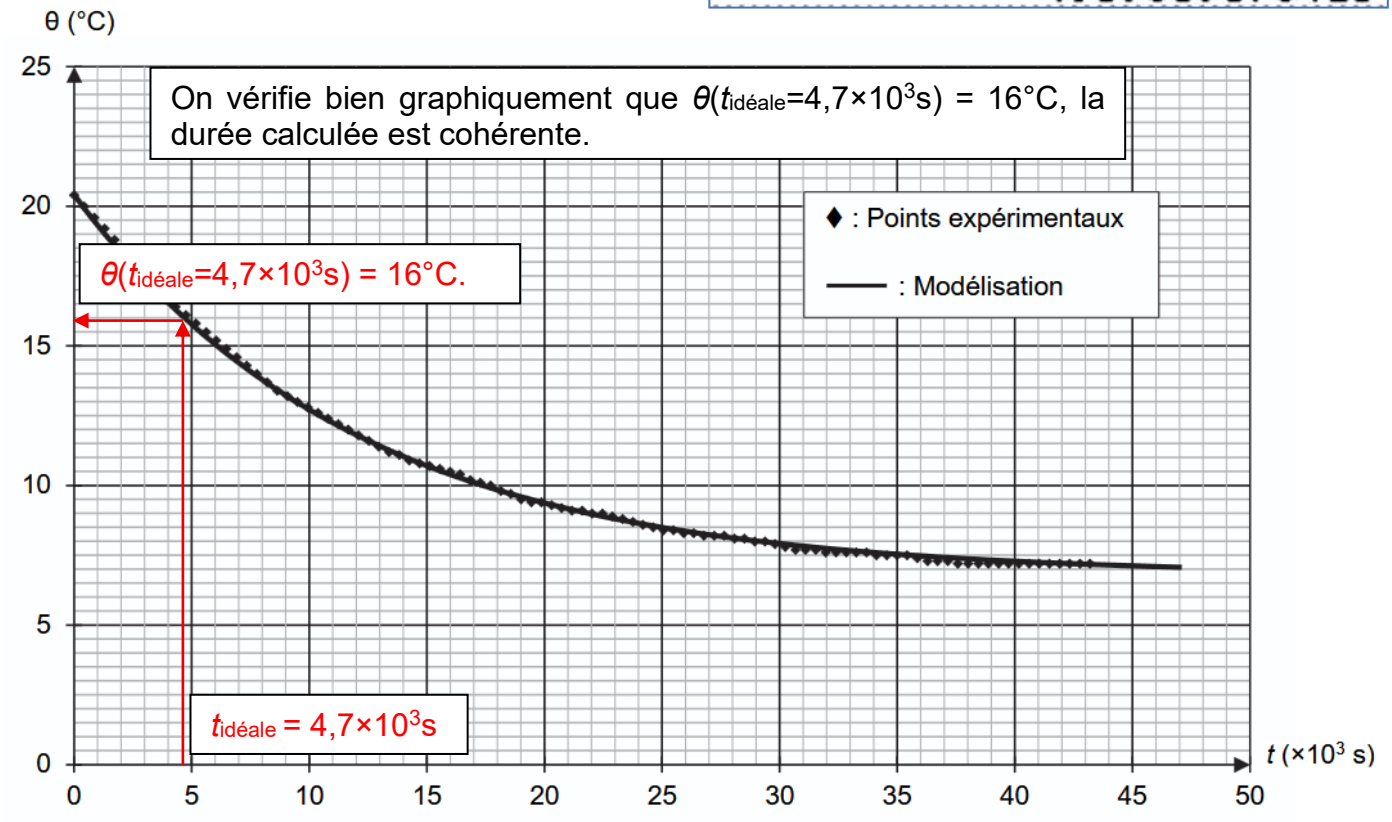

Évolution de la température θ de S au cours du temps t

2. Ouverture de la porte du réfrigérateur « B »

Dans des conditions d'usage régulier, l'ouverture de la porte d'un autre réfrigérateur nommé «B» est parfois difficile. Un élément d'explication de cette difficulté peut être envisagé en considérant la différence de pression entre l'air intérieur du réfrigérateur et l'air extérieur à celui-ci.

Mise en service du réfrigérateur

On étudie l'influence du changement de température lors de la mise en service du réfrigérateur sur la différence de pression.

Données :

- l'air est considéré comme un gaz parfait ;
- constante des gaz parfaits : $R = 8{,}314\ \text{J}\cdot\text{K}^{-1}\cdot\text{mol}^{-1}$;
- équation d'état du gaz parfait : $P\cdot V = n\cdot R\cdot T$
  avec P la pression du gaz en Pa, V le volume occupé par le gaz en m^3, n la quantité de matière de gaz en mol et T la température du gaz en K ;
- volume d'air dans le réfrigérateur : $V_{réfri} = 0{,}15\ m^3$;
- température de l'air ambiant extérieur au réfrigérateur : $T_{amb} = 293$ K ;
- pression de l'air ambiant extérieur au réfrigérateur : $P_{amb} = 1009{,}1\times10^2$ Pa ;
- intensité de la pesanteur : $g = 9{,}8\ \text{N}\cdot\text{kg}^{-1}$.

À la date $t = 0$, la porte du réfrigérateur, contenant de l'air à la température $T_0 = T_{amb}$ et à la pression $P_0 = P_{amb}$, est fermée puis le réfrigérateur est mis en fonctionnement. On note T et P, respectivement la température et la pression de l'air intérieur du réfrigérateur à une date quelconque.

On fait l'hypothèse que le réfrigérateur constitue un système fermé, lorsque la porte est fermée : il n'échange pas de matière avec l'extérieur.

Q8. Expliquer pourquoi, dans le cadre de cette hypothèse, le quotient $\frac{P}{T}$ peut être considéré constant lors du refroidissement de l'air du réfrigérateur après la fermeture de la porte.

D'après la loi des gaz parfaits $P\cdot V_{réfri} = n\cdot R\cdot T$, donc $\frac{P}{T} = \frac{n\cdot R}{V_{réfri}}$.

Le réfrigérateur est un système fermé donc la quantité de matière n de gaz qu'il contient est constante ainsi que le volume de gaz $V_{réfri}$ alors on a bien $\frac{P}{T} = Cte$.

Q9. Calculer, dans ce modèle, la valeur, notée P_{finale}, de la pression de l'air à l'intérieur du réfrigérateur lorsque la température intérieure a atteint sa valeur stabilisée égale à 277 K.

État initial : $t = 0$
$P_0 = P_{amb} = 1009{,}1\times10^2$ Pa
$T_0 = T_{amb} = 293$ K

État final :
$P_{finale} = ?$
$T_{finale} = 277$ K

Comme $\frac{P}{T} = Cte$, alors $\frac{P_0}{T_0} = \frac{P_{finale}}{T_{finale}}$ ainsi $P_{finale} = \frac{P_0}{T_0}\cdot T_{finale}$

$$P_{finale} = \frac{1009{,}1\times10^2}{293}\times277 = 9{,}54\times10^4\ \text{Pa} = 954\times10^2\ \text{Pa}$$



En réalité, on mesure à cette température une pression intérieure finale voisine de $1009{,}1\times10^2$ Pa.

Q10. Indiquer une raison possible de l'écart entre le résultat du calcul effectué à la question Q8 et la pression réellement mesurée.

La mise en température est lente et progressive et la porte du réfrigérateur n'est pas rigoureusement étanche, autrement dit, le système n'est pas rigoureusement fermé car de l'air arrive à passer au niveau des joints de la porte ; si bien que lorsque la température est stabilisée à 277 K, il y a suffisamment d'air qui a eu le temps d'entrer dans le réfrigérateur pour que la pression intérieure soit à la même valeur que la pression extérieure.

Difficulté d'ouverture d'une porte de réfrigérateur juste après sa fermeture

Dans certains cas, la réouverture d'une porte de réfrigérateur juste après fermeture, peut s'avérer difficile. Afin d'expliquer ce phénomène, on enregistre la pression de l'air à l'intérieur du réfrigérateur lors d'une expérience pour laquelle, le réfrigérateur étant ouvert, on en ferme la porte à un instant t_1. L'évolution de la pression mesurée est représentée sur la figure 2. On s'intéresse à la réouverture la porte après une durée Δt suivant la fermeture.

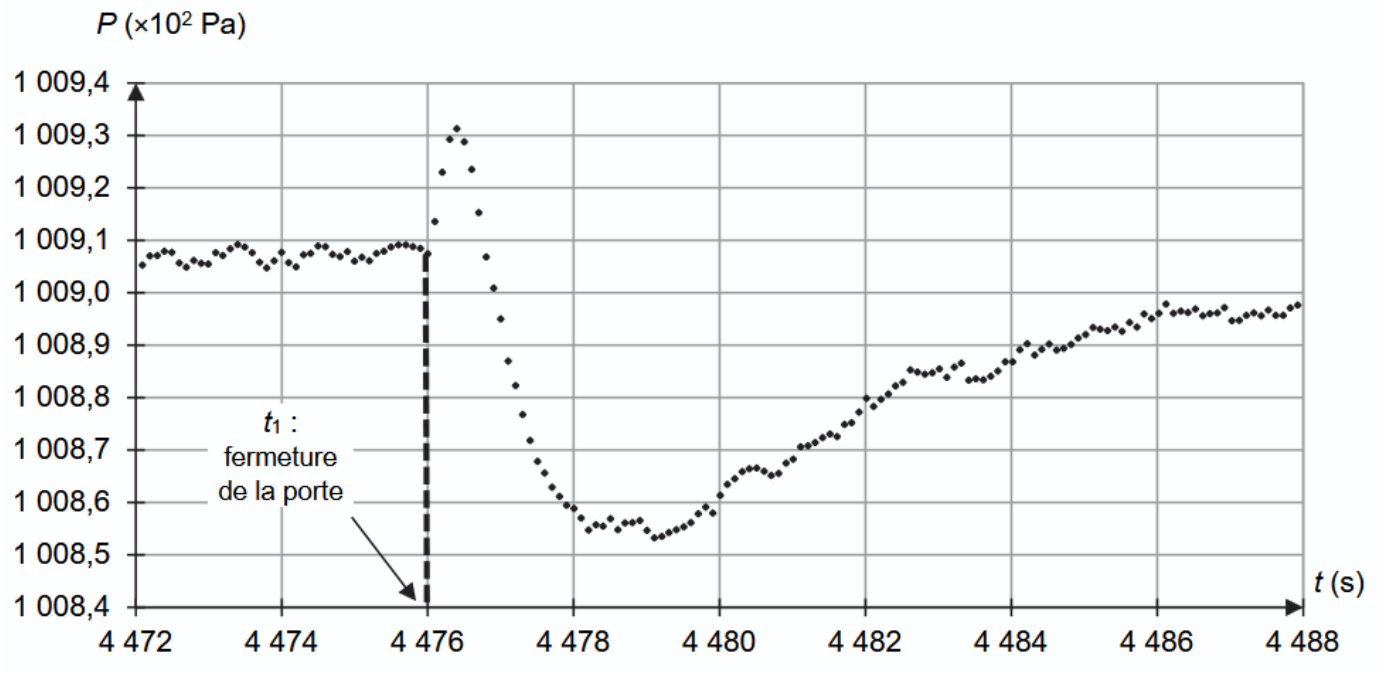

Figure 2. Évolution temporelle de la pression P de l'air intérieur du réfrigérateur S, avant et après fermeture de sa porte

Q11. À l'aide de la figure 2, justifier qu'il peut être difficile de rouvrir la porte du réfrigérateur après une durée Δt = 3 s.

Après une durée Δt = 3 s alors $t = t_1 + 3s$ = 4479 s, on lit que $P_{intérieure} = 1008{,}55\times10^2$ Pa.
Ainsi la pression extérieure est maintenant supérieure à la pression intérieure, alors l'air extérieur pousse plus fort sur la porte que ne le fait l'air intérieur. Il est donc difficile de rouvrir la porte.

Q12. En assimilant la porte du réfrigérateur à une plaque rectangulaire solide très fine de surface S_{plaque} = 1,2 m², déterminer la valeur et la direction de la résultante $\vec{F}$ des forces pressantes qui s'appliquent sur cette plaque lorsque l'on souhaite rouvrir la porte après une durée Δt = 3 s. Commenter le résultat obtenu.

$P = \frac{F}{S}$ donc $F = P\cdot S$

Force exercée par l'air intérieur sur la porte $F_1 = P_{intérieure}\cdot S$

Force exercée par l'air extérieur sur la porte $F_2 = P_{amb}\cdot S$

Ces deux forces sont de sens opposés, donc la résultante $F = F_2 - F_1$

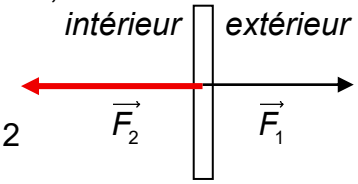

$F = (P_{amb} - P_{intérieure})\cdot S$
$F = (1009{,}1\times10^2 - 1008{,}55\times10^2)\times1{,}2$
F = 66 N

Commentaire : Cette valeur correspond au poids exercé par un objet dont la masse serait d'environ 6,7 kg $\left(m = \frac{P}{g}\right)$, ce qui représente donc une valeur de force suffisamment importante pour rendre l'ouverture de la porte difficile (tant que la pression à l'intérieur n'est pas revenue à la valeur atmosphérique).

Copyright © 2027 FormaV®. Tous droits réservés.

FormaV® est une marque déposée auprès de l'INPI sous le numéro 5227897.

Ce document a été élaboré par FormaV® avec le plus grand soin afin d'accompagner chaque apprenant vers la réussite de ses examens. Son contenu (textes, graphiques, méthodologies, tableaux, exercices, concepts, mises en forme) constitue une œuvre protégée par le droit d'auteur.

Toute copie, partage, reproduction, diffusion ou mise à disposition, même partielle, gratuite ou payante, est strictement interdite sans accord préalable et écrit de FormaV®, conformément aux articles L.111-1 et suivants du Code de la propriété intellectuelle. Dans une logique anti-plagiat, FormaV® se réserve le droit de vérifier toute utilisation illicite, y compris sur les plateformes en ligne ou sites tiers.

En utilisant ce document, vous vous engagez à respecter ces règles et à préserver l'intégrité du travail fourni. La consultation de ce document est strictement personnelle.

Merci de respecter le travail accompli afin de permettre la création continue de ressources pédagogiques fiables et accessibles.